Перечень теоретических и практических заданий к дифференцированному зачету по БОД.11 География (1 курс, 2 семестр 2026-2027 уч. г.)

Форма контроля: Контрольная работа (Опрос)
Описательная часть: По выбору выполнить 2 теоретических задания

Перечень заданий:

Задание №1

1. Составить описание географического объекта, используя картографический материал и применяя различные приемы работы с картой.

Оценка	Показатели оценки
5	Задание выполнено в полном объеме.
4	При выполнении задания допущена одна ошибка.
3	При выполнении задания допущены две ошибки.

Задание №2

2. Перечислите глобальные проблемы современности. Составьте краткую характеристику.

Оценка	Показатели оценки
5	Задание выполнено в полном объеме.
4	При выполнении задания допущена одна ошибка.
3	При выполнении задания допущены две ошибки.

Задание №3

1.Опишите таежный ландшафт по плану

- Рельеф
- Климат
- Растительный мир
- Животный мир

Оценка	Показатели оценки
5	Задание выполнено в полном объеме.
4	При выполнении задания допущена одна ошибка.

3	При выполнении задания допущены две ошибки.

Задание №4

2. С помощью карты «Часовые зоны России» определите, сколько времени будет в Санкт-Петербурге (II часовая зона), когда в Челябинске (III часовая зона) полдень.

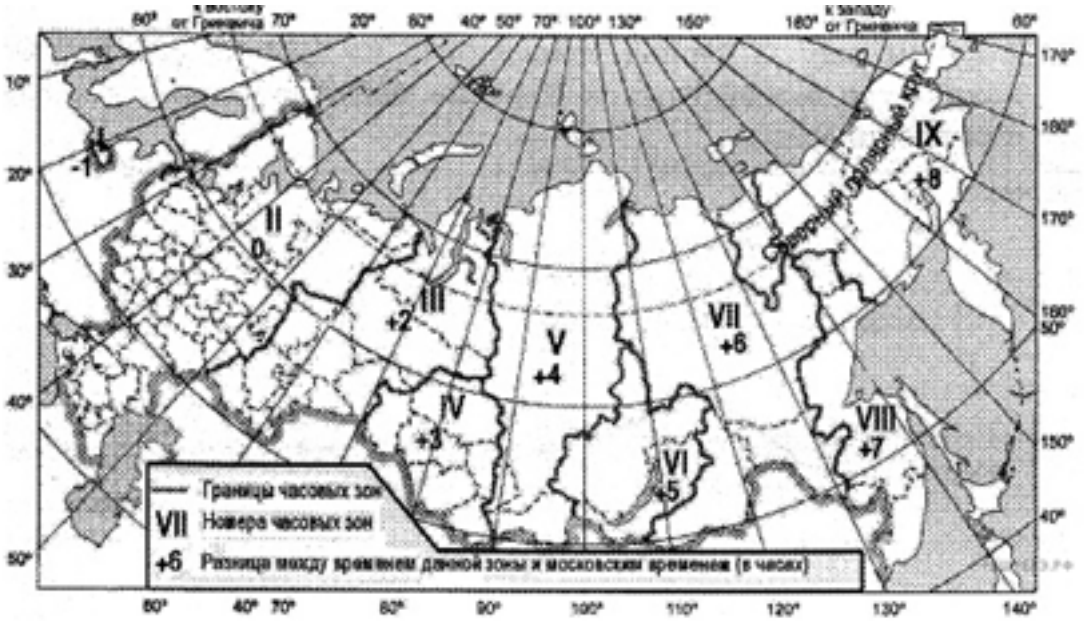

Карта составлена по состоянию на 01.01.2014

Оценка	Показатели оценки
5	Задание выполнено в полном объеме.
4	При выполнении задания допущена одна ошибка.
3	При выполнении задания допущены две ошибки.

Задание №5

1. По плану составьте описание одной из стран мира.

1. **План характеристики ЭГП** государства
2. Экономическая и политическая оценка границ.
3. Положение страны по отношению к транспортным путям международного значения.
4. Положение по отношению к физико-географическим объектам.
5. Изменение экономико-географического положения во времени.
6. Вывод — возможности влияния ЭГП на развитие хозяйства страны.

Оценка	Показатели оценки
5	Задание выполнено в полном объеме.
4	При выполнении задания допущена одна ошибка.

3	При выполнении задания допущены две ошибки.

Задание №6

2. Рассчитаем обеспеченность России следующими ресурсами, используя формулу: обеспеченность = запасы / добыча. Распределите от большего к меньшему ресурсы по обеспеченности. Сделайте вывод по полученным данным.

Ресурс	**Разведанные запасы**	**Добыча в год**	**Обеспеченность (лет)**
Нефть	14 млрд т	505 млн т	
Уголь	193 млрд т	358 млн т	
Газ	48.7 трлн куб. м	130 млрд куб. м	
Железная руда	71 млрд т	107 млн т	

Оценка	Показатели оценки
5	Задание выполнено в полном объеме.
4	При выполнении задания допущена одна ошибка.
3	При выполнении задания допущены две ошибки.

Задание №7

2. Работая по карте, определить состав машиностроительного комплекса.

Оценка	Показатели оценки
5	Задание выполнено в полном объеме.
4	При выполнении задания допущена одна ошибка.
3	При выполнении задания допущены две ошибки.

Задание №8

1. Выбрать одну из стран, играющих важную роль в мировой политике, и дать письменную характеристику ее политико-географического положения, исходя из взаимоотношений с соседними странами, государствами, входящими в политические и военно-политические блоки, из положения по отношению к очагам региональных и локальных конфликтов и «горячим точкам» планеты.

Оценка	Показатели оценки
5	Задание выполнено в полном объеме.
4	При выполнении задания допущена одна ошибка.
3	При выполнении задания допущены две ошибки.

Задание №9

1. На численность населения субъектов Российской Федерации заметное влияние оказывают как естественное движение населения, так и миграции. Проанализировав данные таблицы, определите величину миграционного прироста (убыли) населения Курской области в 2013 г. Запишите решение задачи.

Численность и естественный прирост населения Курской области.

Показатель	2012 г.	2013 г.	2014 г.
Численность постоянного населения на 1 января, чел.	1 121 563	1 119 170	1 118 915
Среднегодовая численность населения, чел.	1 120 366	1 119 089	1 118 147
Естественный прирост населения, чел., значение показателя за год	−5225	−5021	−5439

ege.sdamgia.ru

Оценка	Показатели оценки
5	Задание выполнено в полном объеме.
4	При выполнении задания допущена одна ошибка.
3	При выполнении задания допущены две ошибки.

Задание №10

2. Используя данные таблицы, приведенной ниже, сравните доли сельскохозяйственного населения (людей, занятых в сельском хозяйстве, и членов их семей, находящихся на их иждивении) в общей численности населения и доли сельского хозяйства в ВВП Ирана и Камбоджи. Сделайте вывод о том, в какой из этих стран сельское хозяйство играет большую роль в экономике. Для обоснования своего ответа запишите необходимые числовые данные или вычисления.

Социально-экономические показатели развития Ирана и Камбоджи в 2010 г.

Страна	**Численность населения, млн. чел.**	**Численность сельскохозяйственного населения, мил. чел.**	**Отраслевая структура ВВП, %**		
			Сельское хоз-во	**Промышленность**	**Сфера услуг**
Иран	74,0	15,9	11	46	43
Камбоджа	14,1	9,3	30	30	40

Оценка	Показатели оценки

5	Задание выполнено в полном объеме.
4	При выполнении задания допущена одна ошибка.
3	При выполнении задания допущены две ошибки.

Задание №11

1. Перечислите экологические проблемы в мире. Дайте краткую характеристику каждой. Предложите пути решения.

Оценка	Показатели оценки
5	Задание выполнено в полном объеме.
4	При выполнении задания допущена одна ошибка.
3	При выполнении задания допущены две ошибки.

Задание №12

2. Показать на карте зоны землетрясений и вулканизма, объяснить причину их расположения.

Оценка	Показатели оценки
5	Задание выполнено в полном объеме.
4	При выполнении задания допущена одна ошибка.
3	При выполнении задания допущены две ошибки.

Задание №13

2. Город Медвежьегорск имеет географические координаты 62º 55′ с. ш. 34º 27′ в. д. Определите, на территории какой Республики РФ находится этот город. Напишите алгоритм ваших действий.

Оценка	Показатели оценки
5	Задание выполнено в полном объеме.
4	При выполнении задания допущена одна ошибка.
3	При выполнении задания допущены две ошибки.

Задание №14

1. Опишите пустынный ландшафт по плану (пустыня на выбор)

- Рельеф
- Климат

- Растительный мир
- Животный мир

Оценка	Показатели оценки
5	Задание выполнено в полном объеме.
4	При выполнении задания допущена одна ошибка.
3	При выполнении задания допущены две ошибки.

Задание №15

1. Рассчитаем обеспеченность природными ресурсами населения России, используя формулу: обеспеченность на душу населения = запасы / численность населения. Распределите ресурсы в порядке уменьшения. Сделайте вывод об обеспеченности.

Ресурс	**Запасы**	**Численность населения, млн чел.**	**Обеспеченность на душу населения**
Земельный фонд	1.7 млрд га	146 млн чел	
Общая площадь леса	1184 млн га	146 млн чел	
С/х угодья	383 млн га	146 млн чел	
Водные ресурсы	4270 куб. км	146 млн чел	
Гидроэнергетические ресурсы	340 млн кВт/час	146 млн чел	

Оценка	Показатели оценки
5	Задание выполнено в полном объеме.
4	При выполнении задания допущена одна ошибка.
3	При выполнении задания допущены две ошибки.

Задание №16

2. По плану составьте описание одной из стран мира.

План характеристики ЭГП государства

1. Экономическая и политическая оценка границ.
2. Положение страны по отношению к транспортным путям международного значения.
3. Положение по отношению к физико-географическим объектам.
4. Изменение экономико-географического положения во времени.
5. Вывод — возможности влияния ЭГП на развитие хозяйства страны.

Оценка	Показатели оценки

5	Задание выполнено в полном объеме.
4	При выполнении задания допущена одна ошибка.
3	При выполнении задания допущены две ошибки.

Задание №17

1. Объяснить, в какой части России машиностроение достигло наивысшего уровня развития, почему? Напишите какие центры машиностроения вы знаете в России.

Оценка	Показатели оценки
5	Задание выполнено в полном объеме.
4	При выполнении задания допущена одна ошибка.
3	При выполнении задания допущены две ошибки.

Задание №18

2. Определите страну по ее описанию. Это древнейшее государство расположено в Азии. Оно занимает одно из первых мест по запасам многих природных ресурсов и второе место - по численности населения. Почти 90% жителей сосредоточено на 1/3 территории страны, на востоке. Страна является крупной индустриальной державой и, несмотря на это, слабо урбанизирована (урбанизация 40%). Промышленность сконцентрирована на северо-востоке страны.

Оценка	Показатели оценки
5	Задание выполнено в полном объеме.
4	При выполнении задания допущена одна ошибка.
3	При выполнении задания допущены две ошибки.

Задание №19

2. Используя данные таблицы, приведенной ниже, сравните доли сельскохозяйственного населения (людей, занятых в сельском хозяйстве, и членов их семей, находящихся на их иждивении) в общей численности населения и доли сельского хозяйства в ВВП Киргизии и Малайзии. Сделайте вывод о том, в какой из этих стран сельское хозяйство играет большую роль в экономике. Для обоснования своего ответа запишите необходимые числовые данные или вычисления.

Социально-экономические показатели развития Киргизии и Малайзии в 2010 г.

Страна	**Численность населения, млн. чел.**	**Численность сельскохозяйственного**	**Отраслевая структура ВВП, %**

		населения, мил. чел.	Сельское хоз-во	Промышленность	Сфера услуг
Киргизия	5,3	1,1	25	25	50
Малайзия	28,4	3,4	42	9	50

Оценка	Показатели оценки
5	Задание выполнено в полном объеме.
4	При выполнении задания допущена одна ошибка.
3	При выполнении задания допущены две ошибки.

Задание №20

1. На численность населения субъектов Российской Федерации заметное влияние оказывают как естественное движение населения, так и миграции. Проанализировав данные таблицы, определите величину миграционного прироста (убыли) населения Томской области в 2009 г. Запишите решение задачи.

Численность и естественный прирост населения Томской области

Показатель	2008 г.	2009 г.	2010 г.
Численность постоянного населения на 1 января, чел.	2 507 676	2 505 577	2 502 691
Среднегодовая численность населения, чел.	2 506 626	2 504 134	нет данных
Естественный прирост населения, чел., значение показателя за год	2189	3175	1830 ege.sdamgia.ru

Оценка	Показатели оценки
5	Задание выполнено в полном объеме.
4	При выполнении задания допущена одна ошибка.
3	При выполнении задания допущены две ошибки.

Задание №21

1. Пользуясь «Политической картой мира», назвать государства-лидеры по площади, островные государства, страны-архипелаги, прибрежные государства, государства, не имеющие выхода к морю. Какой метод в географии вы применили для выполнения этого задания?

Оценка	Показатели оценки
5	Задание выполнено в полном объеме.

4	При выполнении задания допущена одна ошибка.
3	При выполнении задания допущены две ошибки.

Задание №22

2. Перечислите экономические проблемы в мире. Дайте краткую характеристику каждой перечисленной проблеме. Предложите пути решения.

Оценка	Показатели оценки
5	Задание выполнено в полном объеме.
4	При выполнении задания допущена одна ошибка.
3	При выполнении задания допущены две ошибки.

Задание №23

1. Церемония открытия Зимних XXII Олимпийских игр 7 февраля 2014 года на Олимпийском стадионе «Фишт» в городе Сочи символично началась в 20:14 по московскому времени. Используя карту, определите, в каких из перечисленных регионов жители должны были включить телевизор 7 февраля в 22:14, чтобы посмотреть начало прямой трансляции церемонии. Запишите время в каждом регионе.

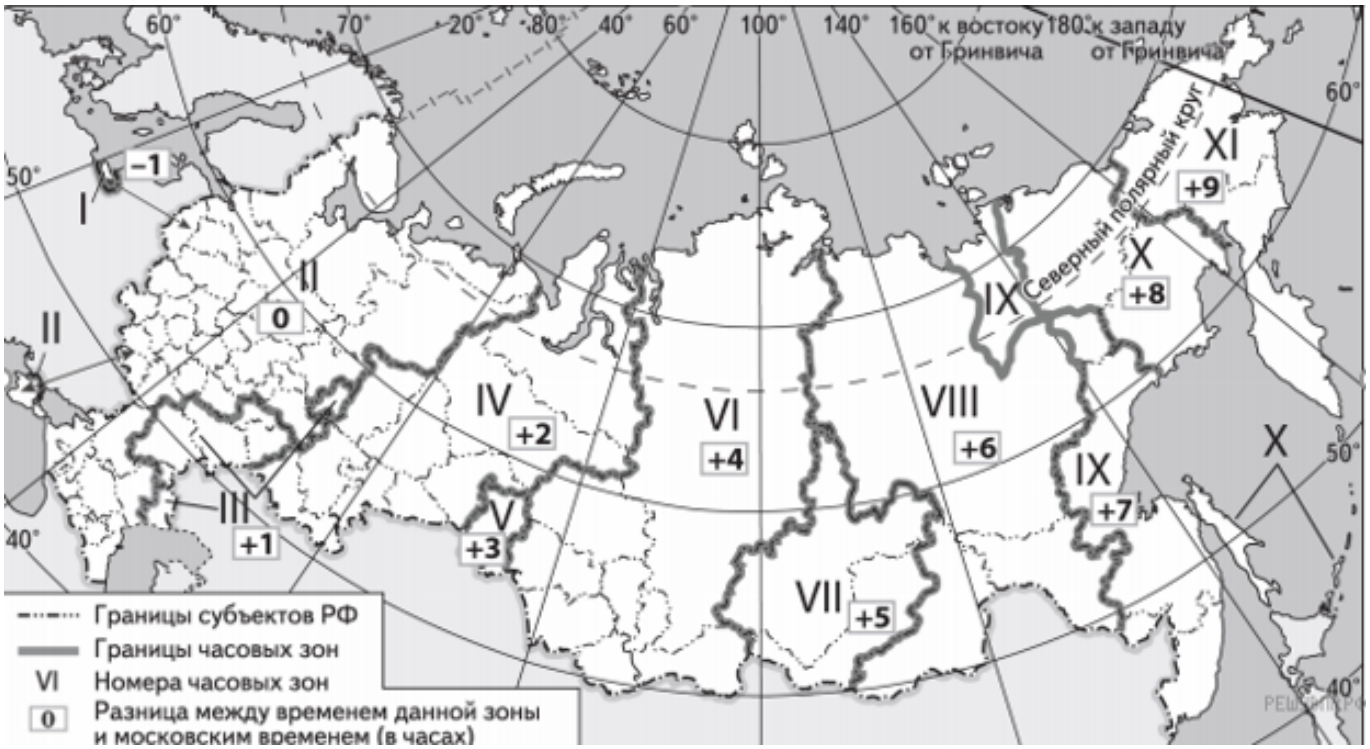

1) Тульская область

2) Курганская область

3) Оренбургская область

4) Калининградская область

5) Ненецкий АО

6) Ямало-Ненецкий АО.

Оценка	Показатели оценки
5	Задание выполнено в полном объеме.
4	При выполнении задания допущена одна ошибка.
3	При выполнении задания допущены две ошибки.

Задание №24

2. Освещение влияет на рост и развитие живых организмов, регулируя обмен веществ и его устойчивость к воздействию неблагоприятных факторов окружающей среды. Запишите перечисленные города России в порядке увеличения продолжительности светового дня 3 августа, начиная с города с наименьшей продолжительностью светового дня.

1. Архангельск.

2. Казань.

3. Иркутск.

Оценка	Показатели оценки
5	Задание выполнено в полном объеме.
4	При выполнении задания допущена одна ошибка.
3	При выполнении задания допущены две ошибки.

Задание №25

2. По плану составьте описание одной из стран мира.

План характеристики ЭГП государства

1. Экономическая и политическая оценка границ.
2. Положение страны по отношению к транспортным путям международного значения.
3. Положение по отношению к физико-географическим объектам.
4. Изменение экономико-географического положения во времени.
5. Вывод — возможности влияния ЭГП на развитие хозяйства страны.

Оценка	Показатели оценки

5	Задание выполнено в полном объеме.
4	При выполнении задания допущена одна ошибка.
3	При выполнении задания допущены две ошибки.

Задание №26

1. Для развития сельскохозяйственного производства страны большое значение имеют как природные, так и материальные ресурсы. Используя данные таблицы, сравните страны А и Б по таким показателям, как общая площадь пашни и количество тракторов, приходящихся на 1000 гектаров пашни.

Страна	Общая площадь земельных угодий, тыс. га	Доля пашни в общей площади земельных угодий, %	Трактора, шт.
А	300 000	8	120 000
Б	240 000	10	90 000

ege.sdamgia.ru

Оценка	Показатели оценки
5	Задание выполнено в полном объеме.
4	При выполнении задания допущена одна ошибка.
3	При выполнении задания допущены две ошибки.

Задание №27

1. Определите страну по ее описанию.Эта высокоразвитая страна по форме правления является конституционной монархией. По числу жителей превышает 100 млн чел. Однонациональное по составу население характеризуется высокой средней плотностью, самой высокой продолжительностью жизни в мире. В промышленности приоритетное развитие получили новейшие наукоемкие отрасли.

Оценка	Показатели оценки
5	Задание выполнено в полном объеме.
4	При выполнении задания допущена одна ошибка.
3	При выполнении задания допущены две ошибки.

Задание №28

2. Охарактеризуйте как машиностроительный комплекс связан с вашей будущей профессией. Покажите на карте России крупные машиностроительные комплексы, связанные с вашей профессией.

Оценка	Показатели оценки
5	Задание выполнено в полном объеме.
4	При выполнении задания допущена одна ошибка.
3	При выполнении задания допущены две ошибки.

Задание №29

1. На численность населения субъектов Российской Федерации заметное влияние оказывают как естественное движение населения, так и миграции. Проанализировав данные таблицы, определите величину миграционного прироста (убыли) населения Иркутской области в 2009 г. Запишите решение задачи с объяснением.

Численность и естественный прирост населения Иркутской области

Показатель	2008 г.	2009 г.	2010 г.
Численность постоянного населения на 1 января, чел.	2 507 676	2 505 577	2 502 691
Среднегодовая численность населения, чел.	2 506 626	2 504 134	нет данных
Естественный прирост населения, чел., значение показателя за год	2189	3175	1830

ege.sdamgia.ru

Оценка	Показатели оценки
5	Задание выполнено в полном объеме.
4	При выполнении задания допущена одна ошибка.
3	При выполнении задания допущены две ошибки.

Задание №30

2. Вертолет вылетел из Эдинбурга (55° с. ш. 3° в. д.) и направился в столицу Дании, Копенгаген (55° с. ш. 12° в. д.). Какое расстояние (в км) пролетит вертолет, если известно, что он будет двигаться строго по параллели? Запишите решение задачи. Ответ округлите до целого числа. Дайте объяснения решению.

Оценка	Показатели оценки
5	Задание выполнено в полном объеме.

4	При выполнении задания допущена одна ошибка.
3	При выполнении задания допущены две ошибки.

Задание №31

2. Перечислите социальные проблемы в мире. Дайте краткую характеристику каждой перечисленной проблеме. Предложите пути решения.

Оценка	Показатели оценки
5	Задание выполнено в полном объеме.
4	При выполнении задания допущена одна ошибка.
3	При выполнении задания допущены две ошибки.

Задание №32

1. Опишите с помощью плана: расположение относительно экватора, тропиков (полярных кругов) и нулевого меридиана, крайние точки, протяженность материка Евразия. Какой метод в географии вы применили?

Оценка	Показатели оценки
5	Задание выполнено в полном объеме.
4	При выполнении задания допущена одна ошибка.
3	При выполнении задания допущены две ошибки.

Задание №33

1. Опишите городской (урбанизованный) ландшафт по плану (на выбор)

- Рельеф
- Климат
- Растительный мир
- Животный мир

Оценка	Показатели оценки
5	Задание выполнено в полном объеме.
4	При выполнении задания допущена одна ошибка.
3	При выполнении задания допущены две ошибки.

Задание №34

2. Город Медвежьегорск имеет географические координаты 62º 55′ с. ш. 34º 27′ в. д. Определите, на территории какой Республики РФ находится этот город. Напишите алгоритм ваших действий.

Оценка	Показатели оценки
5	Задание выполнено в полном объеме.
4	При выполнении задания допущена одна ошибка.
3	При выполнении задания допущены две ошибки.

Задание №35

1. Для развития сельскохозяйственного производства страны большое значение имеют как природные, так и материальные ресурсы. Используя данные таблицы, сравните страны А и Б по таким показателям, как общая площадь пашни и количество используемых минеральных удобрений, приходящихся на 1000 гектаров пашни.

Страна	Общая площадь земельных угодий, тыс. га	Доля пашни в общей площади земельных угодий, %	Применение минеральных удобрений, т
А	250 000	4	120 000
Б	120 000	5	104 000

ege.sdamgia.ru

Оценка	Показатели оценки
5	Задание выполнено в полном объеме.
4	При выполнении задания допущена одна ошибка.
3	При выполнении задания допущены две ошибки.

Задание №36

2. По плану составьте описание одной из стран мира.

План характеристики ЭГП государства

1. Экономическая и политическая оценка границ.
2. Положение страны по отношению к транспортным путям международного значения.
3. Положение по отношению к физико-географическим объектам.
4. Изменение экономико-географического положения во времени.
5. Вывод — возможности влияния ЭГП на развитие хозяйства страны.

Оценка	Показатели оценки
5	Задание выполнено в полном объеме.
4	При выполнении задания допущена одна ошибка.

3	При выполнении задания допущены две ошибки.

Задание №37

2. С помощью карт определите отросли машиностроительного комплекса, перечислите их.

Оценка	Показатели оценки
5	Задание выполнено в полном объеме.
4	При выполнении задания допущена одна ошибка.
3	При выполнении задания допущены две ошибки.

Задание №38

1. Определите страну по ее описанию. Эта высокоразвитая страна по форме правления является конституционной монархией. По числу жителей превышает 100 млн чел. Однонациональное по составу население характеризуется высокой средней плотностью, самой высокой продолжительностью жизни в мире. В промышленности приоритетное развитие получили новейшие наукоемкие отрасли.

Оценка	Показатели оценки
5	Задание выполнено в полном объеме.
4	При выполнении задания допущена одна ошибка.
3	При выполнении задания допущены две ошибки.

Задание №39

1. На численность населения субъектов Российской Федерации заметное влияние оказывают как естественное движение населения, так и миграции. Проанализировав данные таблицы, определите величину миграционного прироста (убыли) населения Республики Бурятия в 2015 г. Запишите решение задачи.

Численность и естественный прирост населения Республики Бурятия

Показатель	2014 г.	2015 г.	2016 г.
Численность постоянного населения на 1 января, чел.	973 860	978 495	982 284
Среднегодовая численность населения, чел.	976 178	980 390	Нет данных
Естественный прирост населения, чел., значение показателя за год	5911	5795	Нет данных

Оценка	Показатели оценки
5	Задание выполнено в полном объеме.
4	При выполнении задания допущена одна ошибка.
3	При выполнении задания допущены две ошибки.

Задание №40

2. Используя данные таблицы, приведенной ниже, сравните доли населения, занятого в сельском хозяйстве, и доли сельского хозяйства в ВВП Армении и Аргентины. Сделайте вывод о том, в какой из этих стран сельское хозяйство играет большую роль в экономике. Для обоснования своего ответа запишите необходимые числовые данные или вычисления.

Социально-экономические показатели развития Армении и Аргентины в 2007 г.

Страна	Численность населения, млн чел.	Структура занятости населения, %			Общий объем ВВП, млрд долл.	Объем сельского хозяйства в общем объеме ВВП, млрд. долл.
		Сельское хоз-во	Сфера услуг	Промышленность		
Армения	3,1	44	39	17	10	2,1
Аргентина	40,8	5	72	23	446	40,6

ge.sdamgia.ru

Оценка	Показатели оценки
5	Задание выполнено в полном объеме.
4	При выполнении задания допущена одна ошибка.
3	При выполнении задания допущены две ошибки.

Задание №41

1. Составьте схему методов исследования в географии, дайте им краткое разъяснение.

Оценка	Показатели оценки
5	Задание выполнено в полном объеме.
4	При выполнении задания допущена одна ошибка.
3	При выполнении задания допущены две ошибки.

Задание №42

2. Перечислите политические проблемы в мире. Дайте краткую характеристику каждой перечисленной проблеме. Как эти проблемы касаются твоей будущей профессии?

Оценка	Показатели оценки
5	Задание выполнено в полном объеме.
4	При выполнении задания допущена одна ошибка.
3	При выполнении задания допущены две ошибки.

Задание №43

2. Самолет вылетел из Воронежа (II часовая зона) в Оренбург (III часовая зона) в 9 часов по московскому времени. Расчетное время полета составляет 2 часа. С помощью карты «Часовые зоны России» определите, сколько времени будет в Оренбурге, когда самолет приземлится.

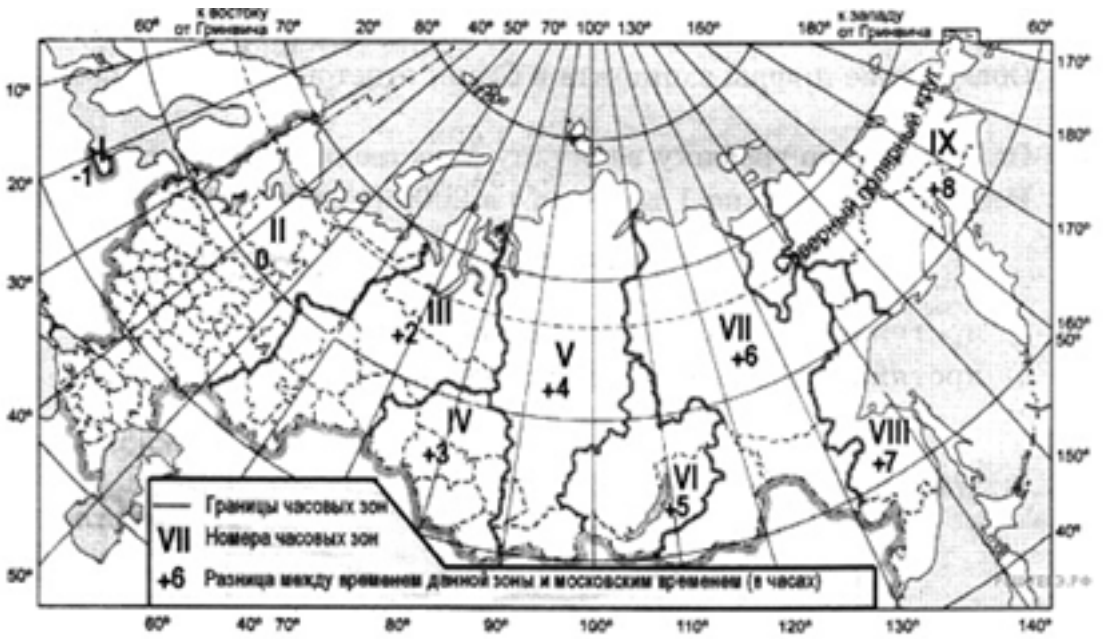

Карта составлена по состоянию на 01.01.2014

Оценка	Показатели оценки
5	Задание выполнено в полном объеме.
4	При выполнении задания допущена одна ошибка.
3	При выполнении задания допущены две ошибки.

Задание №44

1. Опишите рекреационный ландшафт (на выбор)

- Рельеф
- Климат

- Растительный мир
- Животный

Оценка	Показатели оценки
5	Задание выполнено в полном объеме.
4	При выполнении задания допущена одна ошибка.
3	При выполнении задания допущены две ошибки.

Задание №45

1. Используя данные таблицы, сравните обеспеченность стран природным газом. Ответ запишите в порядке возрастания ресурсообеспеченности.

Сделайте выводы по полученным данным.

Страны	**Разведанные запасы природного газа, трлн м3**	**Добыча природного газа, млрд м3 в год**
Канада	2,1	189
Нидерланды	1,77	77
Великобритания	1,3	84

Оценка	Показатели оценки
5	Задание выполнено в полном объеме.
4	При выполнении задания допущена одна ошибка.
3	При выполнении задания допущены две ошибки.

Задание №46

2. По плану составьте описание одной из стран мира.

План характеристики ЭГП государства

1. Экономическая и политическая оценка границ.
2. Положение страны по отношению к транспортным путям международного значения.
3. Положение по отношению к физико-географическим объектам.
4. Изменение экономико-географического положения во времени.

Вывод — возможности влияния ЭГП на развитие хозяйства страны

Оценка	Показатели оценки
5	Задание выполнено в полном объеме.

4	При выполнении задания допущена одна ошибка.
3	При выполнении задания допущены две ошибки.

Задание №47

1. Определите страну по краткому описанию. Эта страна - одна из крупнейших по площади территории и по численности населения. Значительную, но наименее освоенную часть ее территории занимает низменность. Особенностью страны является высокий уровень урбанизации. Население размещено крайне неравномерно: 9/10 населения сосредоточено в приокеанской полосе. Страна богата разнообразными природными ресурсами: по запасам железных, марганцевых руд, бокситов занимает одно из первых мест в мире; огромны ее водные, лесные ресурсы.

Оценка	Показатели оценки
5	Задание выполнено в полном объеме.
4	При выполнении задания допущена одна ошибка.
3	При выполнении задания допущены две ошибки.

Задание №48

2. Охарактеризуйте как машиностроительный комплекс связан с вашей будущей профессией. Покажите на карте России крупные машиностроительные комплексы, связанные с вашей профессией.

Оценка	Показатели оценки
5	Задание выполнено в полном объеме.
4	При выполнении задания допущена одна ошибка.
3	При выполнении задания допущены две ошибки.

Задание №49

1. На численность населения субъектов Российской Федерации заметное влияние оказывают как естественное движение населения, так и миграции. Проанализировав данные таблицы, определите величину миграционного прироста (убыли) населения Ставропольского края в 2019 г. Запишите решение задачи.

Численность и естественный прирост населения Ставропольского края

Показатель	2018 г.	2019 г.	2020 г.
Численность постоянного населения на 1 января, чел.	2 800 674	2 795 243	2 803 573
Среднегодовая численность населения, чел.	2 797 958	2 799 408	Нет данных
Естественный прирост населения, чел., значение показателя за год	−1400	−3669	Нет данных

ege.sdamgia.ru

Оценка	Показатели оценки
5	Задание выполнено в полном объеме.
4	При выполнении задания допущена одна ошибка.
3	При выполнении задания допущены две ошибки.

Задание №50

2. Используя данные таблицы, приведенной ниже, сравните доли сельского хозяйства в ВВП и доли сельскохозяйственной продукции в общих объемах экспорта Кении и Республики Корея. Сделайте вывод о том, в какой из этих стран сельское хозяйство играет большую роль в экономике. Для обоснования Вашего ответа запишите необходимые числовые данные или вычисления.

Социально-экономические показатели развития Республики Корея и Кении в 2010 г.

Страна	Объём ВВП, млрд долл.	Отраслевая структура ВВП, %			Общий объём экспорта, млрд долл.	Объём экспорта сельскохозяйственной продукции, млрд долл.
		Сельское хоз-во	Промышленность	Сфера услуг		
Республика Корея	1466	3	39	58	402,2	16,1
Кения	75	29	18	53	5,2	2,3

ege.sdamgia.ru

Оценка	Показатели оценки
5	Задание выполнено в полном объеме.
4	При выполнении задания допущена одна ошибка.
3	При выполнении задания допущены две ошибки.